2.SINIF ÇARPMA İŞLEMİ PROBLEMLERİ

1) Sevim marketten tanesi 2 liradan 9 tane yumurta aldı. Sevim markete kaç lira ödemelidir?

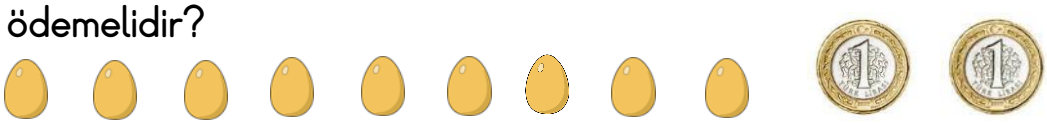

2) Aycan masadaki 6 tabağa 4'er tane fındık koydu. Buna göre tabaklarda toplam kaç adet fındık oldu?

3) Tarık amcanın 7 tane ineği vardır. Tarık amca bu ineklerden günde 3'er kova süt sağmaktadır. Buna göre bir günde toplam kaç kova süt olur?

4) Kırtasiyeden tanesi 5 lira olan kalemlerden 6 tane aldık. Kırtasiyeye toplam kaç lira öderiz?

5) Bir çiçekçideki 5 vazonun her birinde 9'ar adet gül vardır. Buna göre vazolardaki toplam gül sayısı kaçtır?

6) Bir sınıfta 8 adet sıra vardır. Her sırada 2 öğrenci oturduğuna göre bu sınıfta toplam kaç öğrenci vardır?

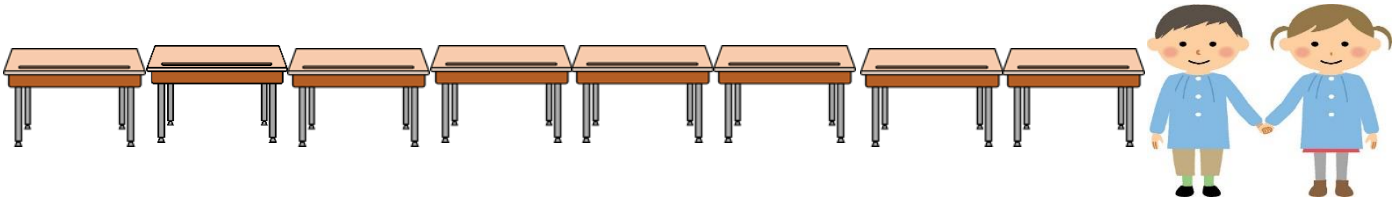

7) Aşağıdaki tabloya göre verilen soruları çarpma işlemi yaparak cevaplayınız.

ÜRÜNLER	FİYATI
	4 TL
	5TL
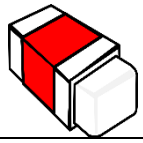	3TL
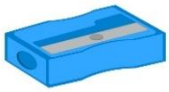	2TL

2 cetvel ve 3 makas kaç lira eder?

4 silgi ve 2 kalemtıraş kaç lira eder?

3 cetvel ve 3 kalemtıraş kaç lira eder?

8) 5 kedi ile 3 tavuğun toplam kaç ayağı vardır?

9) 8 katlı bir apartmanın her katında 4 daire vardır. Buna göre bu apartmanda toplam kaç daire vardır?

10) 5 sayısının 7 katının 14 eksiği kaçtır?

11) Bir basamaklı en büyük sayının 3 katının 23 fazlası kaçtır?

12) Tuna 8 yaşındadır. Annesini yaşı Tuna'nın yaşının 4 katından 6 fazladır. Buna göre Tuna'nın annesi kaç yaşındadır?

13) Cem'in 8 lirası vardır. Zeynep'in parası Cem'in parasının 3 katından 6 lira fazladır. İki arkadaşın toplam kaç lirası vardır?

14) " kitaplık" kelimesinin hece sayısı ile harf sayısını çarpımı kaçtır?

15) Bir günde 3 test çözen Banu, 1 haftada kaç adet test çözer?

16) Onlar basamağı 5 olan en küçük doğal sayıdan, 4'ün 2 katını çıkarırsak sonuç ne olur?

17) Kumbarama her gün 5 lira attım. Bir hafta sonra biriken paramdan 6 lira harcadım. Kumbaramda kaç liram kaldı?