EN YAKIN ONLUĞA YUVARLAMA

Onlukları bilmeliyiz.

10 - 20 - 30 - 40 - 50 - 60 - 70 - 80 - 90

Sayı doğrusuna onlukları yazalım.

30 ve 50 sayılarını sayı doğrusunda yerlerine yazalım.

70 ve 80 sayılarını sayı doğrusunda yerlerine yazalım.

10 ve 40 sayılarını sayı doğrusunda yerlerine yazalım.

20, 60 ve 90 sayılarını sayı doğrusunda yerlerine yazalım.

@cerenogretmenimm

Sayıların hangi onluklar arasında olduğunu bilmeliyiz.

20 - 21 - 22 - 23 - 24 - 25 - 26 - 27 - 28 - 29 - 30

40 _____ 50

70 _____ 80

10 _____ 20

50 _____ 60

30 _____ 40

Hangi onluk arasında?

14 sayısının hangi onluklar arasında olduğunu sayı doğrusunda gösterelim.

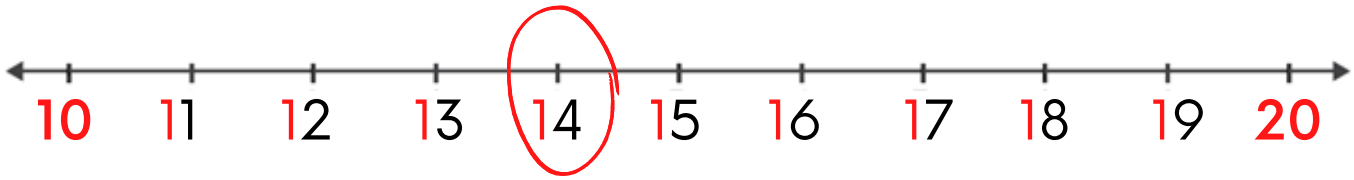

14 sayısı, 10 ile 20 arasındadır.

26 sayısının hangi onluklar arasında olduğunu sayı doğrusunda gösterelim.

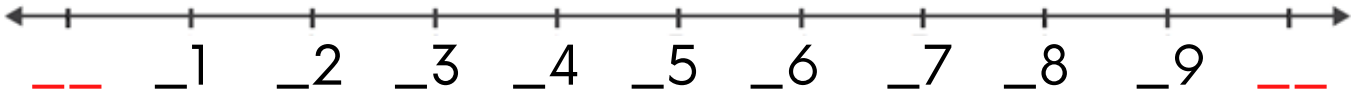

_____

@cerenogretmenimm

75 sayısının hangi onluklar arasında olduğunu sayı doğrusunda gösterelim.

__ _1 _2 _3 _4 _5 _6 _7 _8 _9 __

_____

58 sayısının hangi onluklar arasında olduğunu sayı doğrusunda gösterelim.

__ _1 _2 _3 _4 _5 _6 _7 _8 _9 __

_____

32 sayısının hangi onluklar arasında olduğunu sayı doğrusunda gösterelim.

__ _1 _2 _3 _4 _5 _6 _7 _8 _9 __

_____

@cerenogretmenimm

49 sayısının hangi onluklar arasında olduğunu sayı doğrusunda gösterelim.

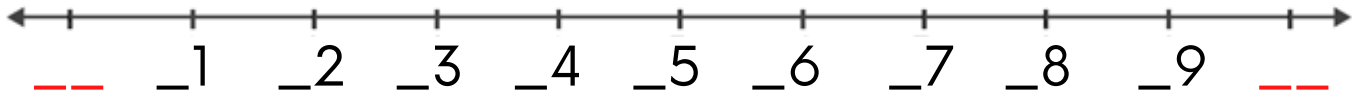

_____

88 sayısının hangi onluklar arasında olduğunu sayı doğrusunda gösterelim.

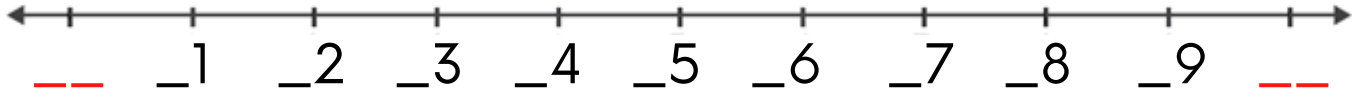

_____

61 sayısının hangi onluklar arasında olduğunu sayı doğrusunda gösterelim.

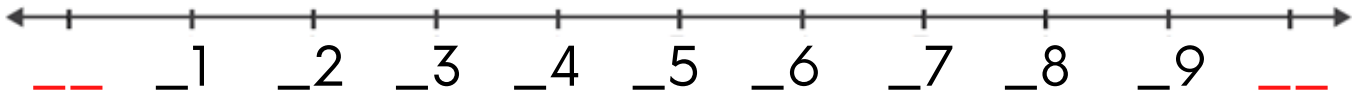

_____

@cerenogretmenimm